3級 指の位置と四捨五入 ～乗算～

1 2,480 × 3.68 =

この定位点を一の位とする

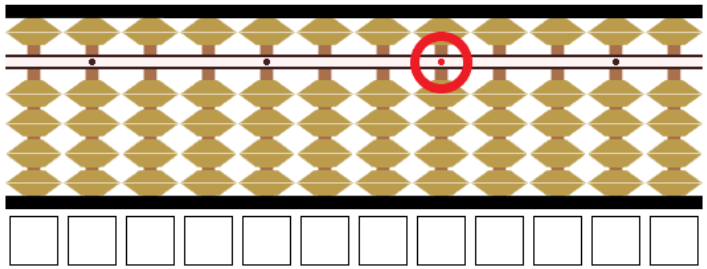

(1) 指を置く場所の□を塗りつぶしなさい。

(2) 正しい答えはどれですか？そろばんで計算をして答えなさい。

（小数第３位未満四捨五入）

① 912,640　　③ 9,126.4

② 91,264　　④ 912.64

答え

2 6.012 × 547 =

この定位点を一の位とする

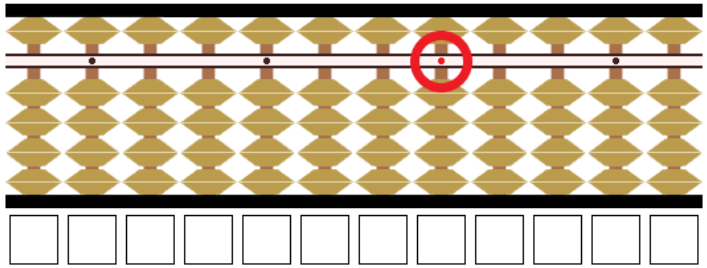

(1) 指を置く場所の□を塗りつぶしなさい。

(2) 正しい答えはどれですか？そろばんで計算をして答えなさい。

（小数第３位未満四捨五入）

① 3,288.564　　③ 328,856.4

② 32,885.64　　④ 3,288,564

答え

3 538.6 × 0.124 =

この定位点を一の位とする

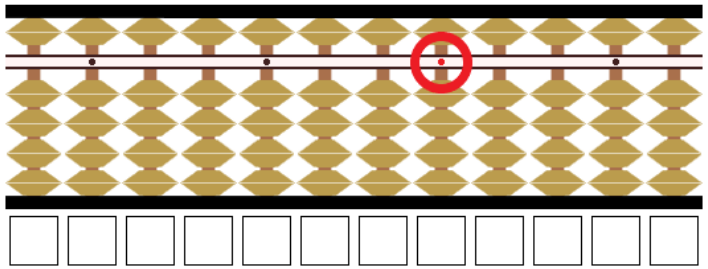

(1) 指を置く場所の□を塗りつぶしなさい。

(2) 正しい答えはどれですか？そろばんで計算をして答えなさい。

（整数位未満四捨五入）

① 66.786　　③ 6,679

② 67　　④ 668

答え

4 0.0861 × 0.943 =

この定位点を一の位とする

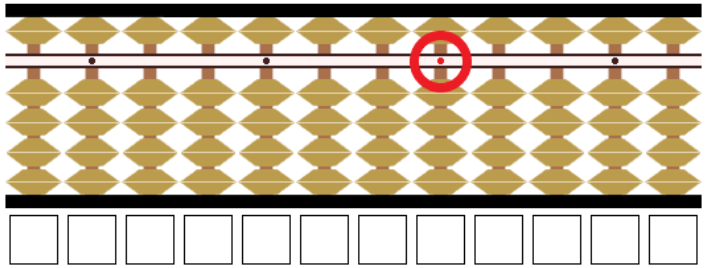

(1) 指を置く場所の□を塗りつぶしなさい。

(2) 正しい答えはどれですか？そろばんで計算をして答えなさい。

（小数第３位未満四捨五入）

① 811,923　　③ 0.812

② 8.119　　④ 0.081

答え

山手ジュニア 山手そろばん教室